수학
D090

시계 보기 · 정각

짧은바늘(빨간색)이 가리키는
숫자가 "몇 시"입니다

이름 _____

날짜 _____

시계를 보고 몇 시인지 빈칸에 쓰세요.

아이프린트
https://i-print.net

1.

[ ] 시

2.



[ ] 시

3.

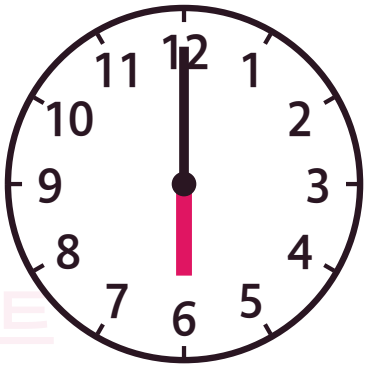

[ ] 시

4.

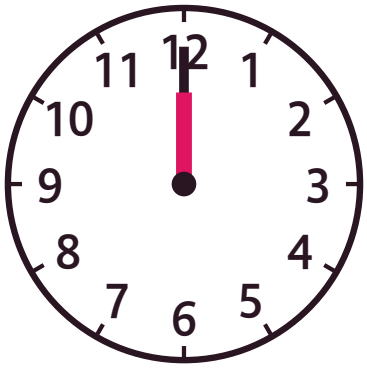

[ ] 시

가정·학교에서 자유롭게 인쇄·배포할 수 있습니다.
판매 등 상업적 이용은 금지합니다.

수학
D090

시계 보기 · 정각

짧은바늘(빨간색)이 가리키는
숫자가 "몇 시"입니다

이름 _____

날짜 _____

시계를 보고 몇 시인지 빈칸에 쓰세요.

아이프린트
https://i-print.net

1.

[ ] 시

2.



[ ] 시

3.

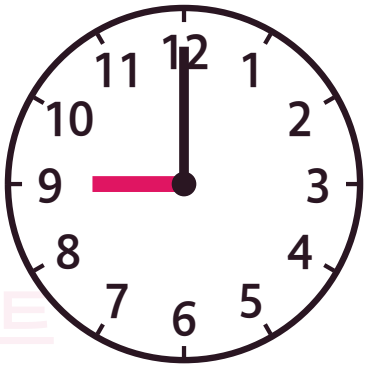

[ ] 시

4.



[ ] 시

가정·학교에서 자유롭게 인쇄·배포할 수 있습니다.
판매 등 상업적 이용은 금지합니다.

수학
D090

시계 보기 · 정각

짧은바늘(빨간색)이 가리키는
숫자가 "몇 시"입니다

이름 _____

날짜 _____

시계를 보고 몇 시인지 빈칸에 쓰세요.

아이프린트
https://i-print.net

1.

[ ] 시

2.



[ ] 시

3.

[ ] 시

4.

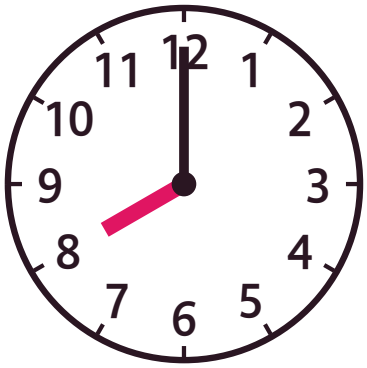

[ ] 시

가정·학교에서 자유롭게 인쇄·배포할 수 있습니다.
판매 등 상업적 이용은 금지합니다.

수학
D090

시계 보기 · 정각

짧은바늘(빨간색)이 가리키는
숫자가 "몇 시"입니다

이름 _____

날짜 _____

시계를 보고 몇 시인지 빈칸에 쓰세요.

아이프린트
https://i-print.net

1.



☐ 시

2.



☐ 시

3.

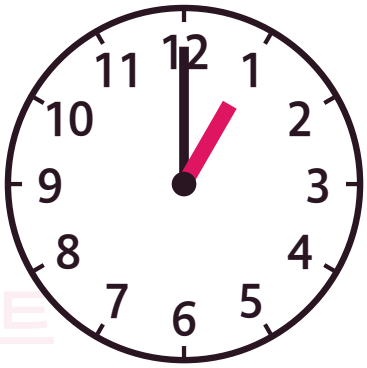

☐ 시

4.

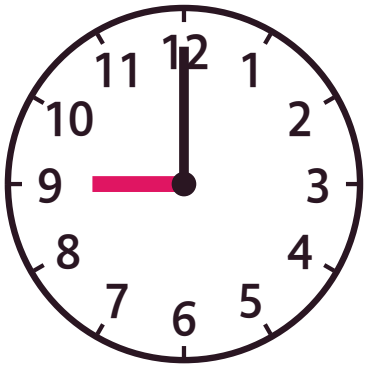

☐ 시

가정·학교에서 자유롭게 인쇄·배포할 수 있습니다.
판매 등 상업적 이용은 금지합니다.