수학
A160

길다 · 짧다 비교하기

막대의 길이와 높이를 견줍니다. 왼쪽 끝을 맞춰 두어 눈으로 비교할 수 있습니다.

이름 _____

날짜 _____

둘 중에서 더 긴 것에 ○ 하세요.



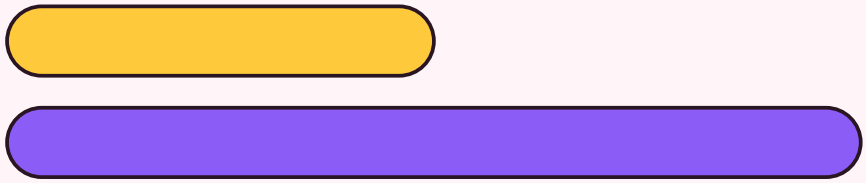

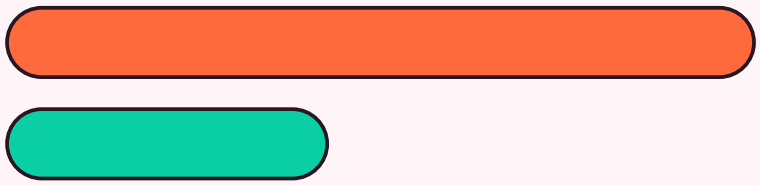

아이프린트
https://i-print.net

가정·학교에서 자유롭게 인쇄·배포할 수 있습니다.
판매 등 상업적 이용은 금지합니다.

수학
A160

길다 · 짧다 비교하기

막대의 길이와 높이를 견줍니다. 왼쪽 끝을 맞춰 두어 눈으로 비교할 수 있습니다.

이름 _____

날짜 _____

둘 중에서 더 짧은 것에 ○ 하세요.

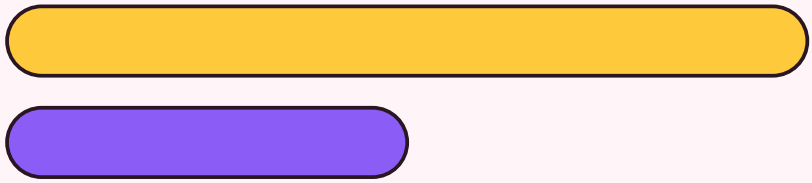

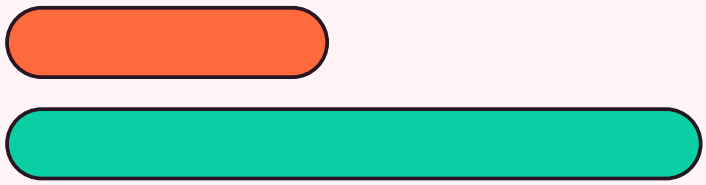

아이프린트
https://i-print.net

가정·학교에서 자유롭게 인쇄·배포할 수 있습니다.
판매 등 상업적 이용은 금지합니다.

수학
A160

길다 · 짧다 비교하기

막대의 길이와 높이를 견줍니다. 왼쪽 끝을 맞춰 두어 눈으로 비교할 수 있습니다.

이름 _____

날짜 _____

셋 중에서 가장 긴 것에 ○ 하세요.

아이프린트
https://i-print.net

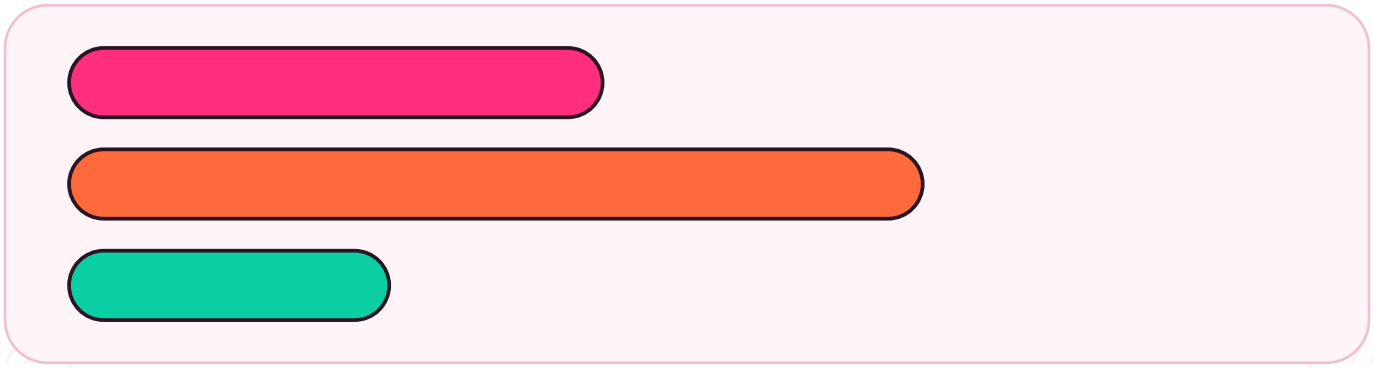



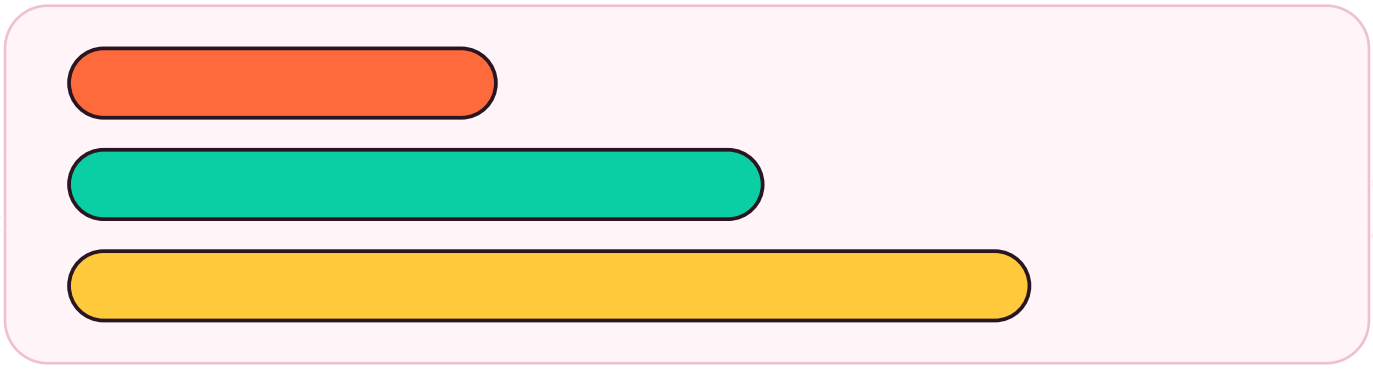

가정·학교에서 자유롭게 인쇄·배포할 수 있습니다.
판매 등 상업적 이용은 금지합니다.

수학
A160

길다 · 짧다 비교하기

막대의 길이와 높이를 견줍니다. 왼쪽 끝을 맞춰 두어 눈으로 비교할 수 있습니다.

이름 _____

날짜 _____

둘 중에서 더 높은 것에 ○ 하세요.

아이프린트
https://i-print.net

가정·학교에서 자유롭게 인쇄·배포할 수 있습니다.
판매 등 상업적 이용은 금지합니다.