수학
A150

크다 · 작다 비교하기

같은 그림을 크기만 다르게 두었습니다.
큰 것과 작은 것을 가려 봅니다.

이름 _____

날짜 _____

둘 중에서 더 큰 것에 ○ 하세요.

아이프린트
https://i-print.net







가정·학교에서 자유롭게 인쇄·배포할 수 있습니다.
판매 등 상업적 이용은 금지합니다.

수학
A150

크다 · 작다 비교하기

같은 그림을 크기만 다르게 두었습니다.
큰 것과 작은 것을 가려 봅니다.

이름 _____

날짜 _____

둘 중에서 더 작은 것에 ○ 하세요.

아이프린트
https://i-print.net





가정·학교에서 자유롭게 인쇄·배포할 수 있습니다.
판매 등 상업적 이용은 금지합니다.

수학
A150

크다 · 작다 비교하기

같은 그림을 크기만 다르게 두었습니다.
큰 것과 작은 것을 가려 봅니다.

이름 _____

날짜 _____

셋 중에서 가장 큰 것에 ○ 하세요.







아이프린트
https://i-print.net

가정·학교에서 자유롭게 인쇄·배포할 수 있습니다.
판매 등 상업적 이용은 금지합니다.

수학
A150

크다 · 작다 비교하기

같은 그림을 크기만 다르게 두었습니다.
큰 것과 작은 것을 가려 봅니다.

이름 _____

날짜 _____

셋 중에서 가장 작은 것에 ○ 하세요.







아이프린트
https://i-print.net

가정·학교에서 자유롭게 인쇄·배포할 수 있습니다.
판매 등 상업적 이용은 금지합니다.