수학
C210

11부터 20까지 세기

십틀 두 개로 "10과 몇"을 봅니다. 열을 넘는 수를 묶음으로 보는 첫걸음입니다.

이름 _____

날짜 _____

십틀의 점을 세어 모두 몇 개인지 쓰세요. 왼쪽 틀은 꽉 차 있으면 10입니다.

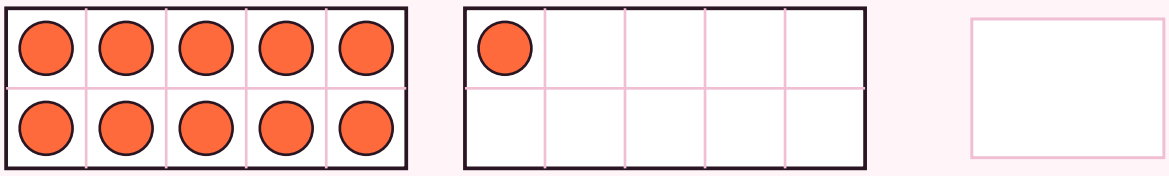

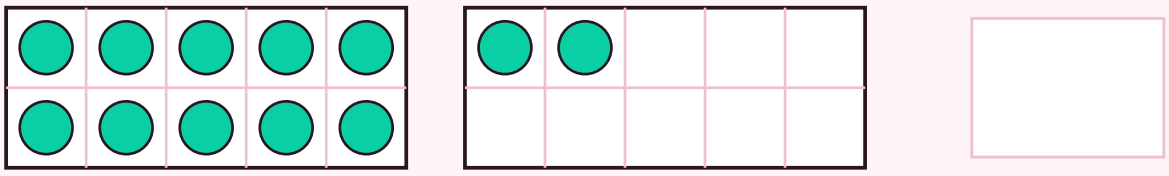

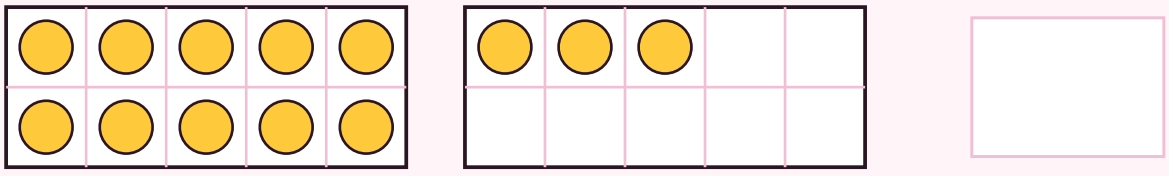

아이프린트
https://i-print.net

가정·학교에서 자유롭게 인쇄·배포할 수 있습니다.
판매 등 상업적 이용은 금지합니다.

수학
C210

11부터 20까지 세기

십틀 두 개로 "10과 몇"을 봅니다. 열을 넘는 수를 묶음으로 보는 첫걸음입니다.

이름 _____

날짜 _____

십틀의 점을 세어 모두 몇 개인지 쓰세요.

아이프린트
https://i-print.net

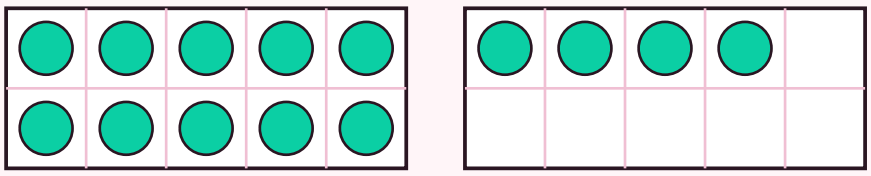

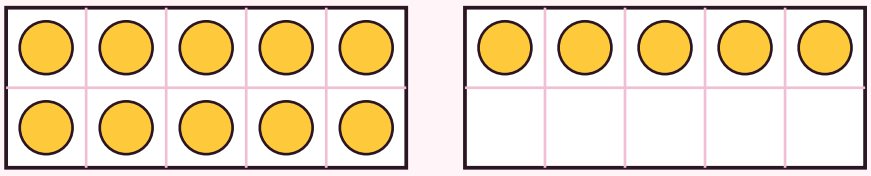

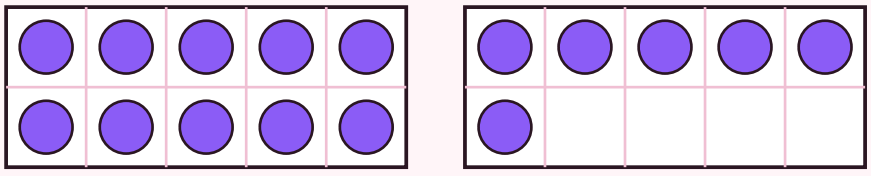

가정·학교에서 자유롭게 인쇄·배포할 수 있습니다.
판매 등 상업적 이용은 금지합니다.

수학
C210

11부터 20까지 세기

십틀 두 개로 "10과 몇"을 봅니다. 열을 넘는 수를 묶음으로 보는 첫걸음입니다.

이름 _____

날짜 _____

십틀의 점을 세어 모두 몇 개인지 쓰세요.

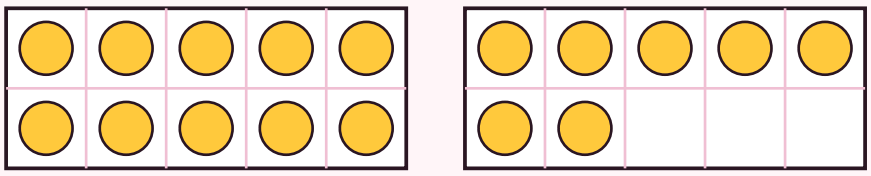

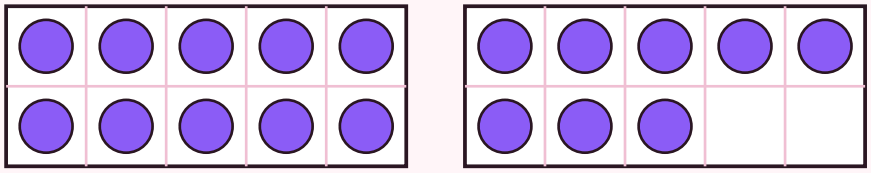

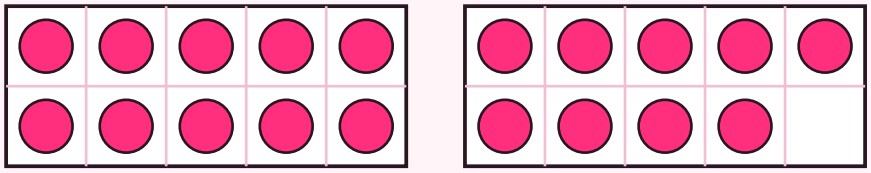

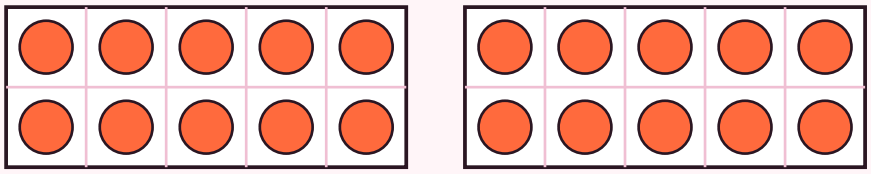

아이프린트
https://i-print.net

가정·학교에서 자유롭게 인쇄·배포할 수 있습니다.
판매 등 상업적 이용은 금지합니다.

수학
C210

11부터 20까지 세기

십틀 두 개로 "10과 몇"을 봅니다. 열을 넘는 수를 묶음으로 보는 첫걸음입니다.

이름 _____

날짜 _____

수를 읽고, 그 수만큼 십틀의 칸을 색칠하세요.

아이프린트
https://i-print.net

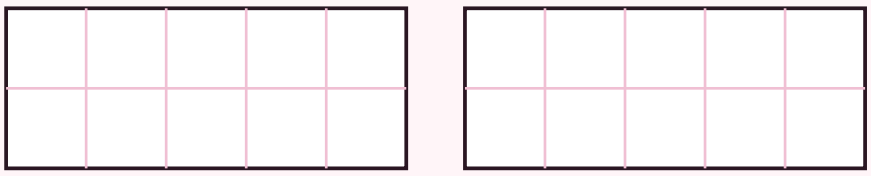

12

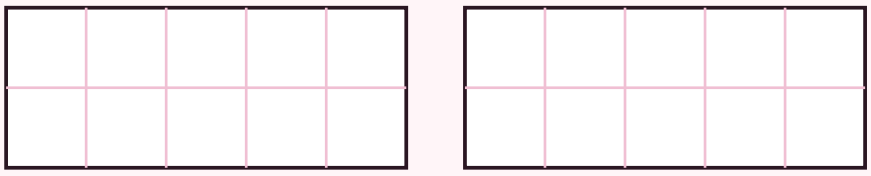

15

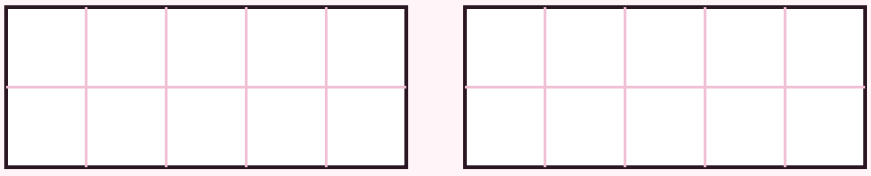

18

가정·학교에서 자유롭게 인쇄·배포할 수 있습니다.
판매 등 상업적 이용은 금지합니다.